Wochenplan ____ Name: _____ Klasse: ____ Abgabe am: _____

Mo — erledigt ☐ kontrolliert ☐

Ganze Zahlen am Zahlenstrahl

Lies die ganzen Zahlen von der Zahlengeraden ab und schreibe sie auf.

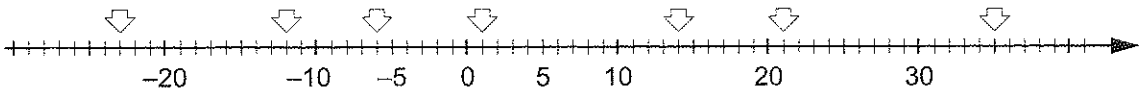

Di — erledigt ☐ kontrolliert ☐

Prozentrechnung

Berechne den Prozentsatz.

	20 m²	50 m²	120 m²	300 m²	420 m²
A	von 800 m²				

	12 min	15 min	45 min	60 min	90 min
B	von 2 h				

Mi — erledigt ☐ kontrolliert ☐

Kreisdiagramme

Wie groß müssen die Winkel für die eingezeichneten Prozentsätze sein?

A

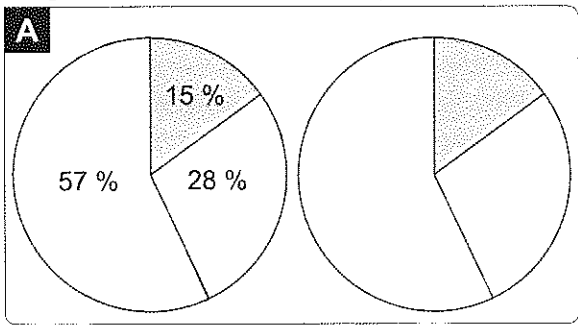

B

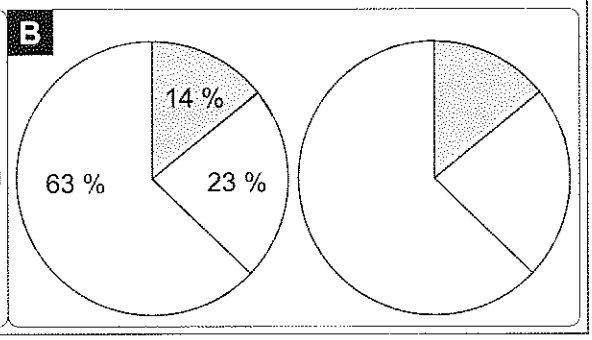

Do — erledigt ☐ kontrolliert ☐

Zinsrechnung

Berechne die Zinsen für ein Jahr.

K *Kapital*	400 €	950 €	5000 €	1000 €	280 €	800 €
p % *Zinssatz*	3 %	2,5 %	7,5 %	$5\frac{1}{4}$ %	9 %	10,5 %
Z *Zinsen*						

Fr — erledigt ☐ kontrolliert ☐

Zuordnungen und ihre Darstellung

Hier siehst du die durchschnittlichen Monatstemperaturen von Suntown in °F. Übertrage diese Daten in das Diagramm. Rechne dann die Temperaturen in °C um und ergänze die Tabelle.

January	77 °F
February	86 °F
March	95 °F
April	96,8 °F
May	104 °F
June	105,8 °F
July	109,4 °F
August	104,9 °F
September	107,6 °F
October	95 °F
November	77 °F
December	75,2 °F

Wandle in °C um.
Rechenvorschrift:

$C = \frac{5}{9} \cdot (°F - 32°)$
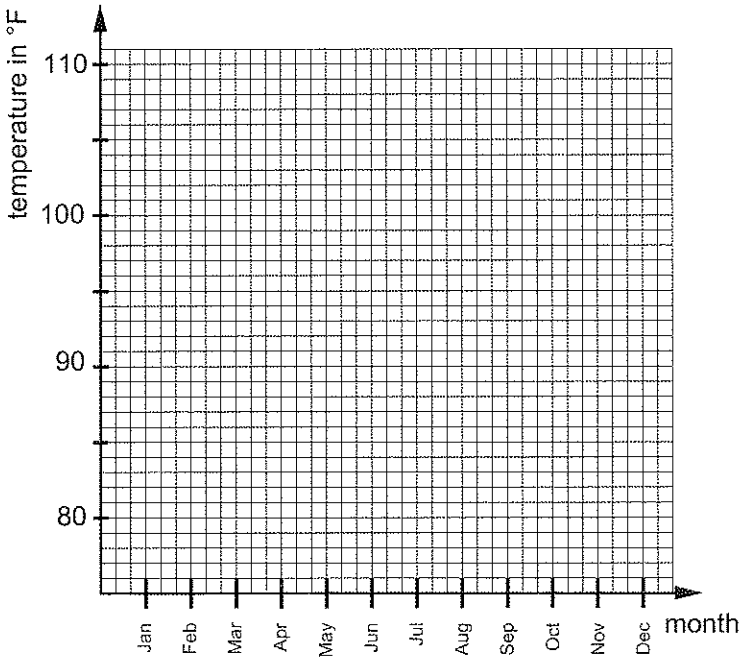
Januar	Februar	März	April	Mai	Juni	Juli	August	September	Oktober	November	Dezember